CISD Grade 2 Math Unit 09 SPANISH

Some questions (c) 2012 by CSCOPE.

1 La persona que dirige el tráfico en el cruce escolar usa una señal de alto para ayudar a los niños a cruzar la calle con seguridad. ¿Cuántos vértices tiene una señal de alto?

A 4 vértices

B 6 vértices

C 8 vértices

2 Lauren está resfriada. Ella tiene una caja de pañuelos desechables junto a su escritorio. ¿Cuántas caras tiene esta caja de pañuelos desechables?

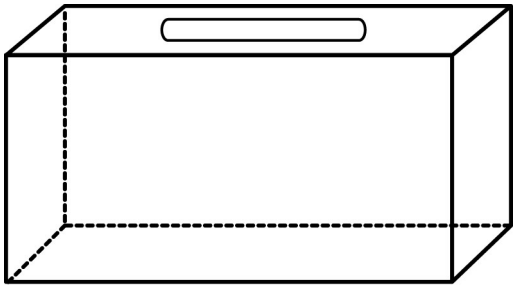

A 4 caras

B 6 caras

C 8 caras

3 ¿Cuál de las siguientes figuras tiene 0 vértices y 0 lados?

A

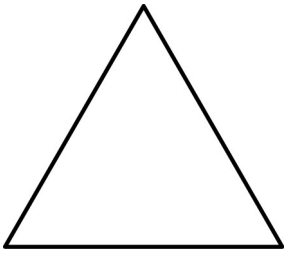

B



C



4 Ben puso una pirámide cuadrada en la parte superior del castillo que hizo con bloques.

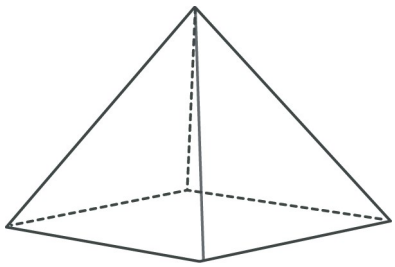

¿Cuántas aristas tiene una pirámide cuadrada?

A 4 aristas

B 6 aristas

C 8 aristas

GO ON

5 ¿Cuál de las siguientes figuras es un polígono?

A

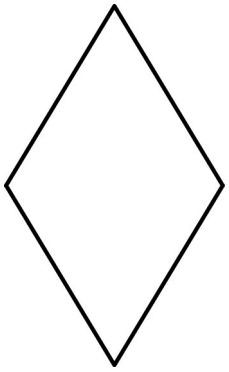

B



C

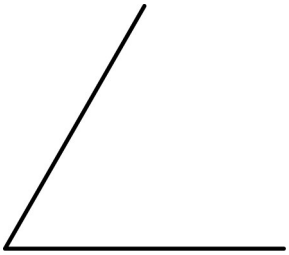

6 Mike va de campamento. Su tienda de campaña se ve como la de abajo.

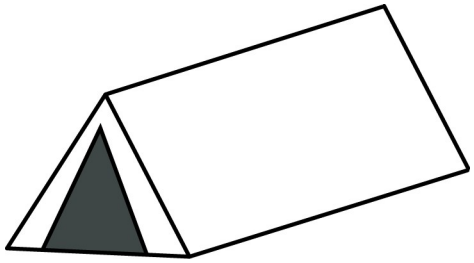

¿Qué figura tiene la tienda de campaña de Mike?

A Prisma rectangular

B Pirámide rectangular

C Prisma triangular

7 Todos los escritorios en el salón de clases tienen una figura en la parte superior. El maestro está dando pistas para que los estudiantes puedan encontrar su escritorio. El escritorio de Tammy tiene una figura con 3 lados y 3 vértices. El escritorio de Pete tiene una figura con 4 lados iguales y 4 vértices.

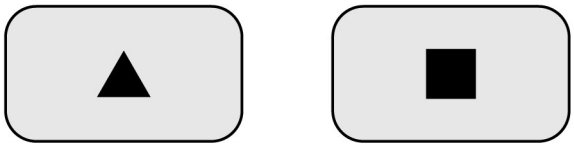

¿Qué figura tiene el escritorio de Tammy?

A Triángulo

B Rectángulo

C Cuadrado

8 Observa las siguientes dos figuras geométricas.



¿En qué se parecen estas figuras?

A Las dos figuras tienen 3 aristas.

B Las dos figuras tienen 2 caras.

C Las dos figuras tienen 3 dimensiones.

9 Observa las siguientes figuras geométricas.

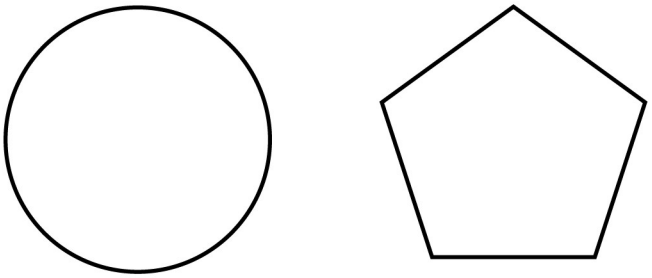

¿En qué se diferencian estas figuras?

A Una figura es un cuadrilátero y la otra no es un cuadrilátero.

B Una figura es un polígono y la otra no es un polígono.

C Una figura es de 3 dimensiones y la otra es de 2 dimensiones.

---

10 Si David recorta la figura que se muestra abajo por la línea punteada, ¿cuáles dos figuras formará?

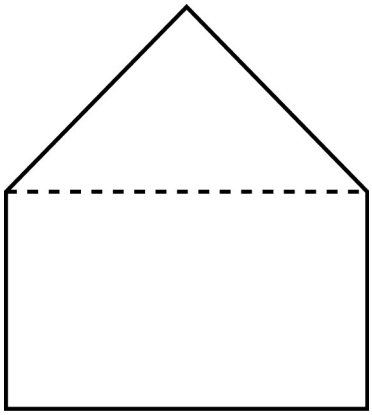

A Un rectángulo y un cono

B Un hexágono y un triángulo

C Un rectángulo y un triángulo

11 Jay dibujó un rombo y un trapecio.

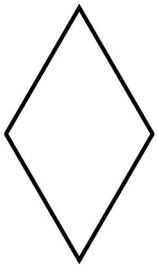

¿En qué se parecen estas figuras?

A Las dos figuras son cuadriláteros.

B Las dos figuras tienen 5 lados.

C Las dos figuras son hexágonos.

12 (*El maestro debe proveer una hoja de papel y tijeras para el estudiante*).
Mary está usando hojas de papel de cuaderno y un par de tijeras para hacer figuras. Ella dobla cada hoja de papel una vez y recorta sobre el doblez.



¿Cuál de estas figuras NO puede formarse cuando se dobla una hoja de papel de cuaderno una vez y se recorta sobre el doblez?

A Círculo

B Triángulo

C Rectángulo

BE SURE YOU HAVE RECORDED ALL OF YOUR ANSWERS ON YOUR ANSWER DOCUMENT

STOP